Hunderterraum 2

1. Zahlen am Rechenstrich einordnen. ★

~~18~~ ~~65~~ 30 74 25 54 15 42



/1

2. Vor und zurück am Rechenstrich. ★

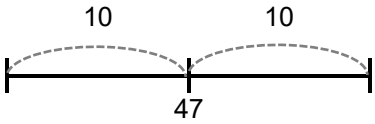

47 + 10 = ____

47 - 10 = ____

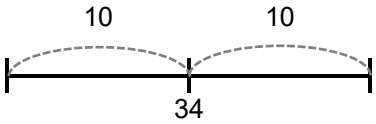

34 + 10 = ____

34 - ____ = ____

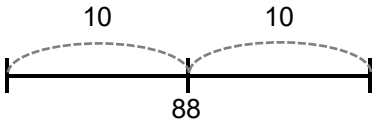

88 + ____ = ____

88 - ____ = ____

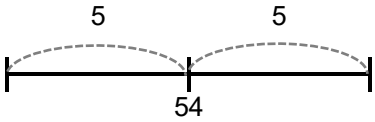

54 + 5 = ____

54 - 5 = ____

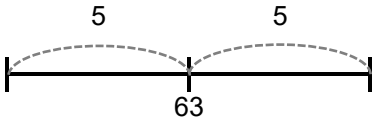

63 + ____ = ____

63 - ____ = ____

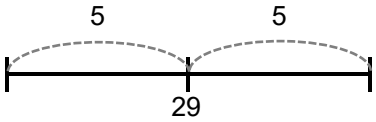

29 + ____ = ____

____ - ____ = ____

/6

3. Geldbeträge bestimmen. Wie viele Franken? ★

_____ Fr.

_____ Fr.

/2

4. Ergänzen auf 100! ★

43 + ____ = 100	60 + ____ = 100	83 + ____ = 100
25 + ____ = 100	61 + ____ = 100	94 + ____ = 100
75 + ____ = 100	59 + ____ = 100	38 + ____ = 100

/9

5. Geldbeträge legen ★★

Lege mit fünf Noten 100 Franken.
Finde zwei verschiedene Möglichkeiten.
Trage die Zahlen unten ein!

a) ☐ ☐ ☐ ☐ ☐

b) ☐ ☐ ☐ ☐ ☐

/9

6. Textaufgaben ★★★

a) An der Bushaltestelle steigen zu den 18 Kindern drei Kinder dazu.
An der nächsten Bushaltestelle verlassen 11 Kinder den Bus.
Wie viele Kinder kommen im Schwimmbad an?

Rechnung: _____

b) 23 Kinder schwimmen im grossen Becken. Sieben Kinder kommen dazu.
Später verlassen die Hälfte der Kinder das Schwimmbad.

Rechnung: _____

Antwortsatz: _____

_____

/3

Punkte: _____ / 30	Unterschrift: