# Kleines 1·1

## 1. Schreibe die richtigen Plus- und Malaufgaben zu den Bildern. ★

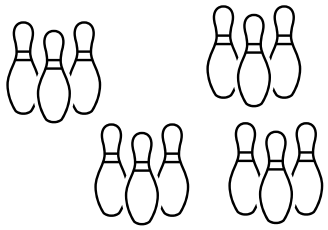

plus:

mal:

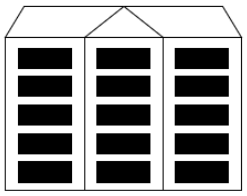

plus:

mal:



plus:

mal:

/3

## 2. Schreibe die passende Malaufgabe zum Ausschnitt aus dem Hunderterfeld. ★





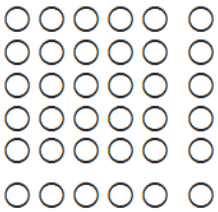



/6

## 3. Zeichne zur Rechnung ein passendes Bild. ★

| | | | |
|---|---|---|---|
| $2 \cdot 4 =$ ___ | $4 \cdot 4 =$ ___ | $3 \cdot 5 =$ ___ | $4 \cdot 2 =$ ___ |

/4

## 4. Kernaufgaben rechnen ★

| | | | |
|---|---|---|---|
| $1 \cdot 5 =$ ___ | $1 \cdot 4 =$ ___ | $1 \cdot 8 =$ ___ | $1 \cdot 7 =$ ___ |
| $2 \cdot 5 =$ ___ | $2 \cdot 4 =$ ___ | $2 \cdot 8 =$ ___ | $2 \cdot 7 =$ ___ |
| $5 \cdot 5 =$ ___ | $5 \cdot 4 =$ ___ | $5 \cdot 8 =$ ___ | $5 \cdot 7 =$ ___ |
| $10 \cdot 5 =$ ___ | $10 \cdot 4 =$ ___ | $10 \cdot 8 =$ ___ | $10 \cdot 7 =$ ___ |

/8

## 5. Tiere auf dem Bauernhof ★★

Auf dem Bauernhof sind: 4 Hühner, 1 Hahn, 3 Schweine und 2 Katzen.

a) Zeichne alle Tiere. Wie viele Beine haben alle Tiere zusammen?

Antworte in einem Satz.

_____

/2

b) Schreibe die Plusaufgabe auf.

_____

/4

c) Schreibe die Malaufgaben auf.

_____

/4

## 6. Farbige Eier ★★★

Der Osterhase legt in jedes Nest drei Eier.
Er hat gelbe, rote und blaue Eier.
Wie viele verschiedene Nester gibt es?

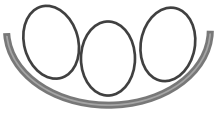

a) Mache eine Skizze.

b) Schreibe deinen Antwortsatz.

_____

/3

Wie war die Lernkontrolle?

Sie war:
- ☐ sehr einfach.
- ☐ einfach.
- ☐ mittel.
- ☐ schwierig.

| Punkte: _____ / 34 | Unterschrift: |
|---|---|