Geographie der Schweiz — Prüfung

Name: _____

1) Benenne die Nachbarländer der Schweiz und schreibe auch die Hauptstädte dazu!

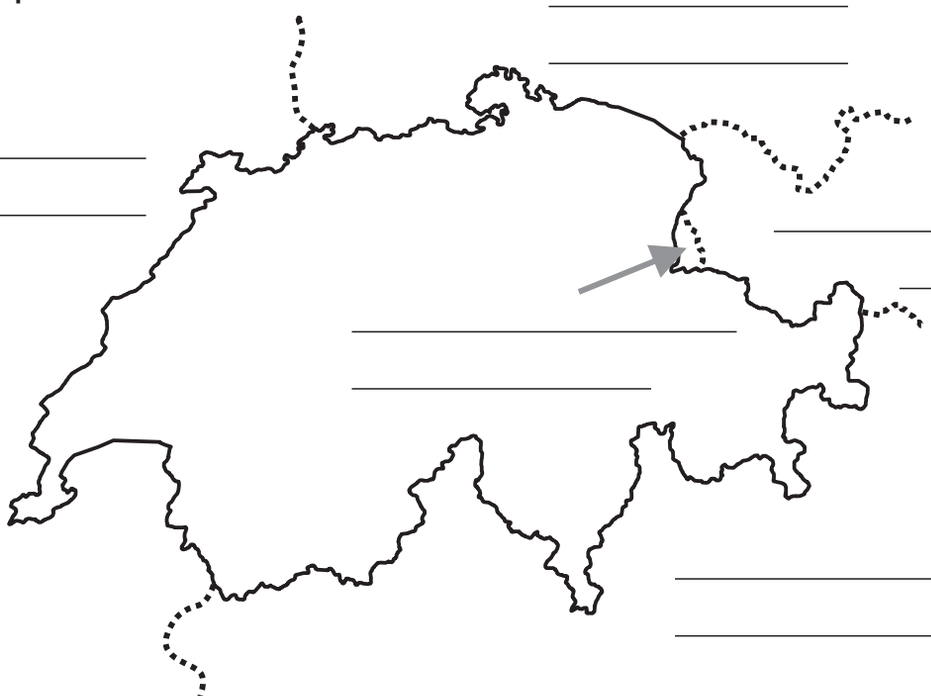

10	

2) Wichtige Zahlen: Fülle die Linien aus!

Fläche: _____ km^2

Einwohner: _____ Ew.

Ew.-Dichte: _____ $Ew./km^2$

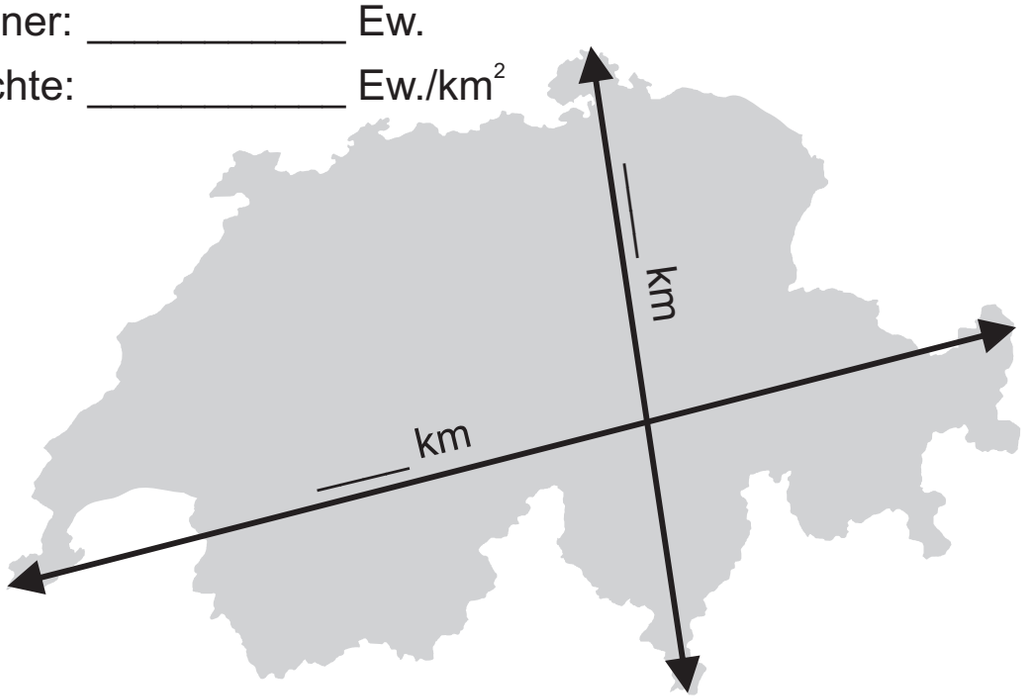

5	

3) Beschrifte die Regionen der Schweiz!

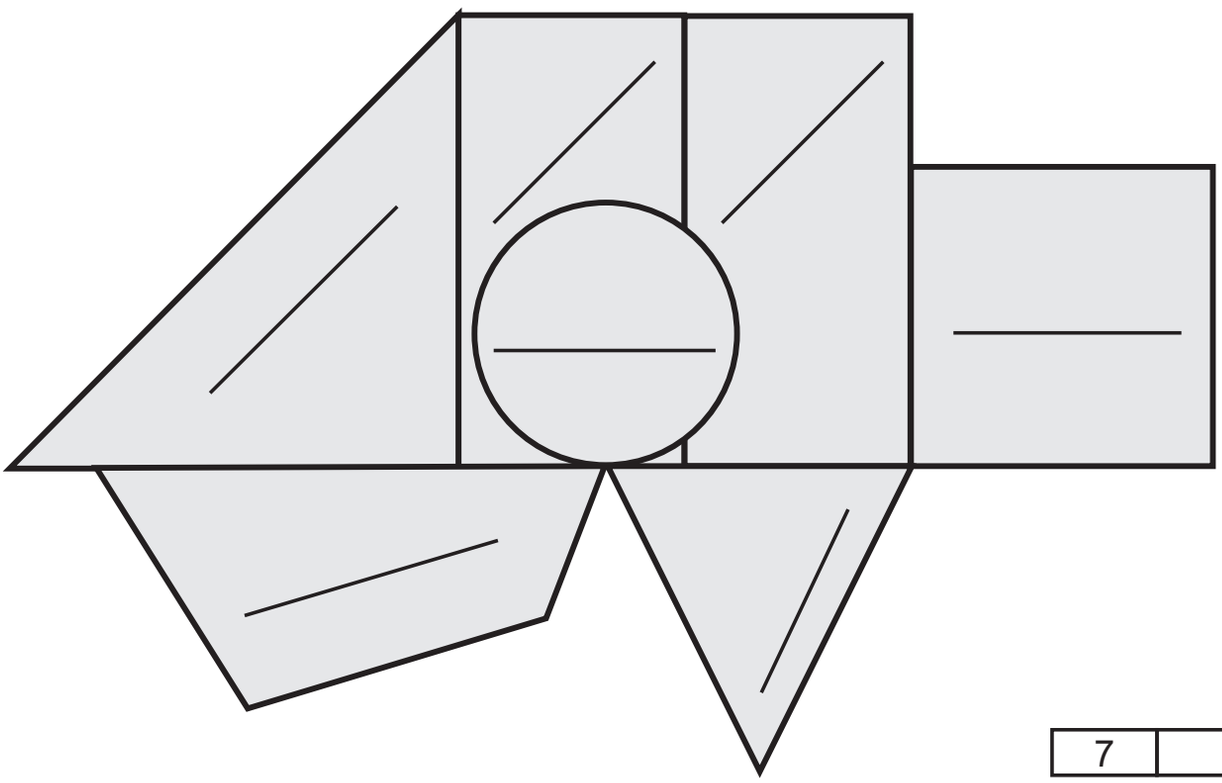

7	

4) Landschaften der Schweiz: Fülle die Lücken aus und ordne die Bilder (je zwei pro Landschaft) und Texte zu!

_____

_____ % der Schweiz

_____

_____ % der Schweiz

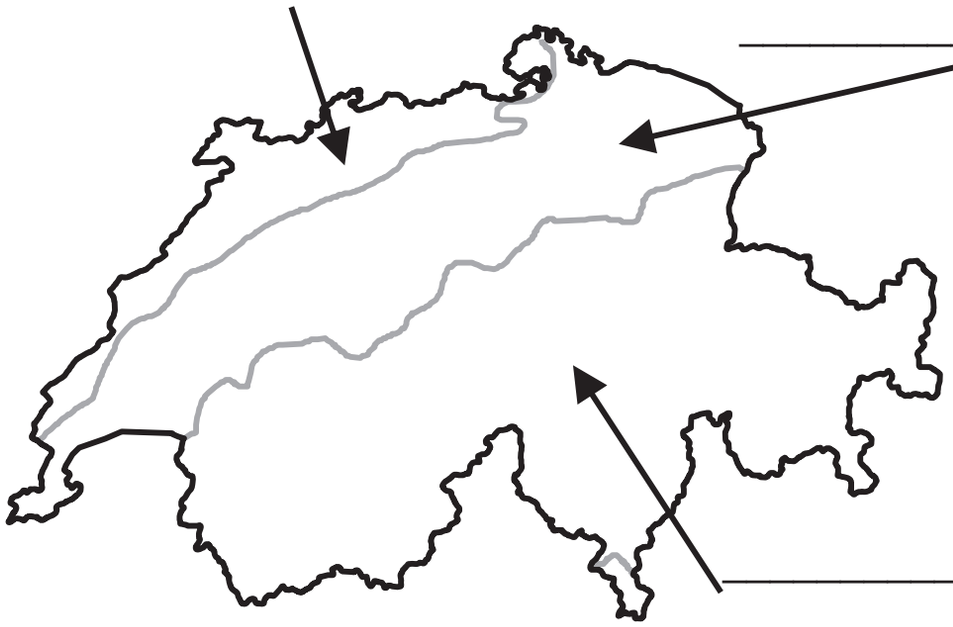

_____

_____ % der Schweiz

_____

_____

_____

_____

_____

_____

Bilder von Roland Zumbühl - www.picswiss.ch

_____ Grosse Längsmulde mit kleinen Hügeln zwischen den zwei Gebirgen

_____ Faltengebirge mit einförmigen Kammlinien

_____ Zerklüftetes Hochgebirge mit ewigem Schnee und Gletschern

5) Kantone der Schweiz: Fülle die Legende aus!

	Kanton	Hauptort	Abk.
1)			
2)			
3)			
4)			
5)			
6)			
7)			
8)			
9)			
10)			

10

6) Kantonswappen: Zu welchem Kanton gehören die Wappen?
Umkreise jene Wappen mit rot, die einen Fehler haben!

_____



_____



_____



_____

_____

_____



_____



_____

12	

7) Bauformen in der Schweiz: Ordne die Häuser einer Region zu!

Wallis - Jura - Berner Oberland - Tessin - Graubünden

_____

_____

_____



_____

_____

5	

8) Gewässer der Schweiz: Fülle die Legende aus!

10	

1) _____

2) _____

3) _____

4) _____

5) _____

6) _____

7) _____

8) _____

9) _____

10) _____

9) Benenne die Städte (●), Pässe (⤙) und Berge (△)!

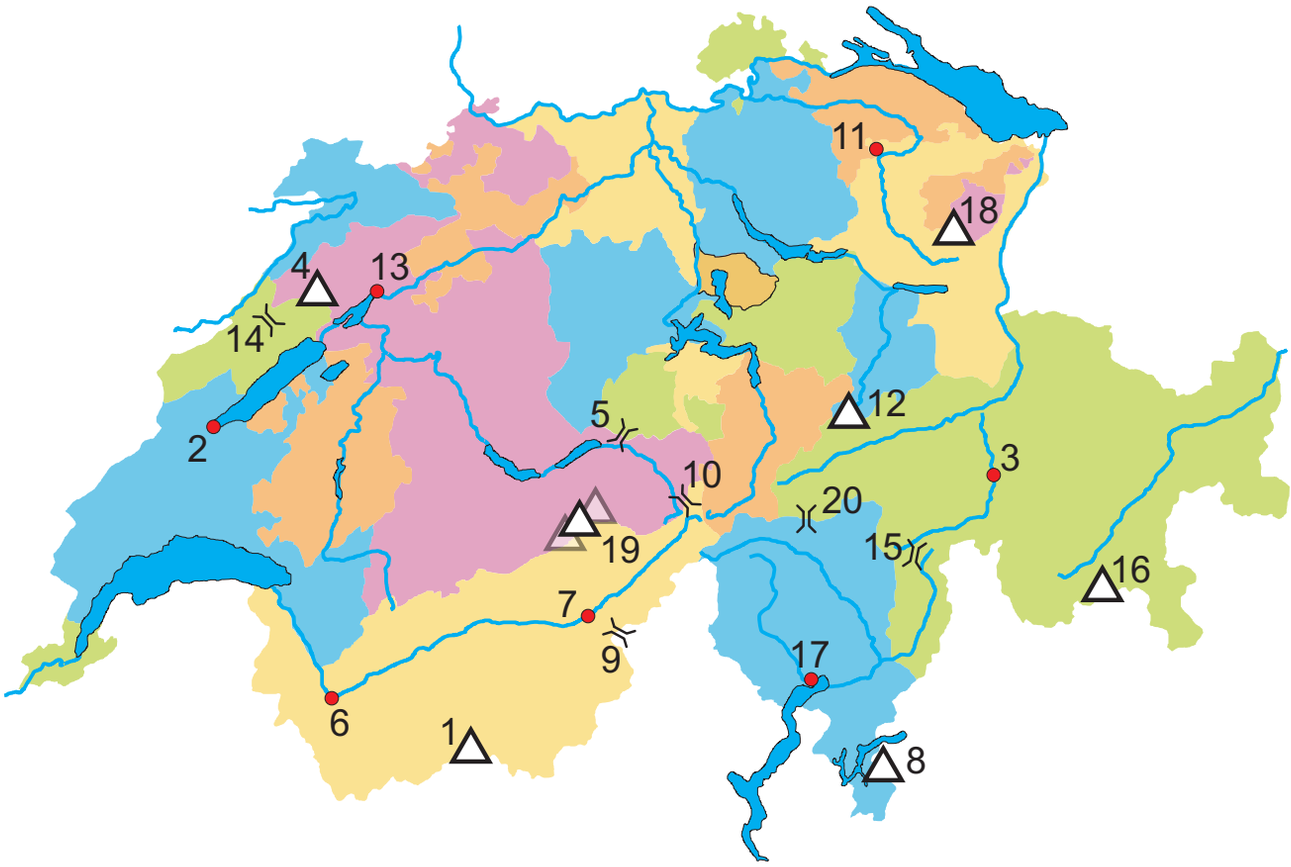

1) _____ 11) _____

2) _____ 12) _____

3) _____ 13) _____

4) _____ 14) _____

5) _____ 15) _____

6) _____ 16) _____

7) _____ 17) _____

8) _____ 18) _____

9) _____ 19) _____

10) _____ 20) _____

20	

10) Beantworte die Fragen!

1) Welches Nachbarland der Schweiz hat am zweitmeisten Einwohner?

_____

2) Welcher Fluss mündet in den Ticino? _____

3) Wie lange ist die Schweizer Grenze? _____ km

4) Wo liegt der tiefste Punkt der Schweiz? _____

5) Welches ist der nördlichste Kanton der Schweiz?

_____

6) Welches Kantonswappen zeigt als einziges einen Menschen?

_____

7) In welches Meer fliesst am meisten Schweizer Wasser?

_____

8) In welchen Fluss mündet die Inn? _____

9) Wie heisst die Schweiz auf Italienisch?

_____

10) Wie heisst der höchste Punkt der Schweiz? _____

11) Wann feiert Italien seinen Nationalfeiertag? _____

12) Welche Landessprache ist am wenigsten verbreitet?

_____

13) In welches Meer mündet die Rhône? _____

14) Durch wie viele Seen fliesst die Aare? _____

15) Welche Farben zeigt die Flagge von Deutschland?

_____

15	

Bonuspunkte für die Gestaltung des CH-Heftes: ___ / 10

Punkte max.: 109 / erreicht: _____ / Durchschnitt: _____ / Note: _____