Zahl des Tages

374

Schreibe die Zahl in einem Wort.

Markiere das passende Feld im Ausschnitt aus dem Tausenderbuch.

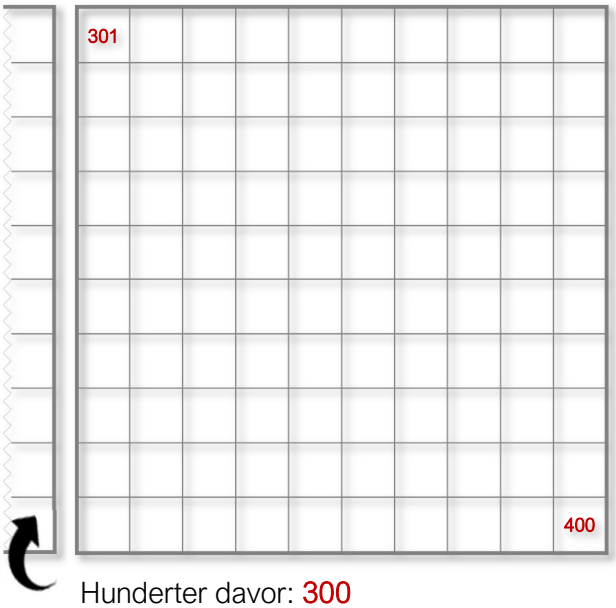

Hunderter davor: 300

Ordne die Zahlen der Grösse nach.

793, 286, 374

Beginne mit der kleinsten Zahl:

_____ < _____ < _____

Schreibe die Nachbarzahlen auf.

_____ , 374, _____

Zeichne mit Hunderter-Platten, Zehner-Stäben und Einer-Würfeln.

Setze einen Pfeil zum Strich, bei dem sich die Zahl auf dem Zahlenstrahl befindet.

Zähle in Schritten.

10er-Schritte vorwärts: 374, _____ , _____ , _____ , _____

2er-Schritte rückwärts: 374, _____ , _____ , _____ , _____

Wie viel fehlt bis 1000? Ergänze mit Zwischenschritten (schrittweise oder mit dem Zahlenstrich). Ergänze zuerst auf den nächsten Zehner, dann auf den Hunderter, und zum Schluss auf 1000.

Resultat:

Zahl des Tages 374

Lösung

Schreibe die Zahl in einem Wort.

dreihundertvierundsiebzig

Markiere das passende Feld im Ausschnitt aus dem Tausenderbuch.

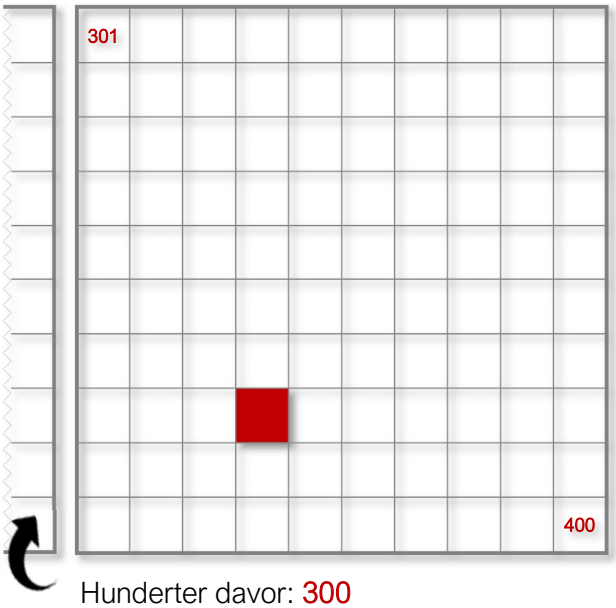

Hunderter davor: 300

Ordne die Zahlen der Grösse nach.

793, 286, 374

Beginne mit der kleinsten Zahl:

286 < 374 < 793

Schreibe die Nachbarzahlen auf.

373 , 374 , 375

Zeichne mit Hunderter-Platten, Zehner-Stäben und Einer-Würfeln.

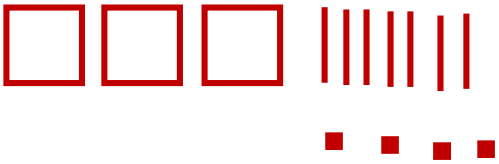

Setze einen Pfeil zum Strich, bei dem sich die Zahl auf dem Zahlenstrahl befindet.

300 vorheriger Hunderter

nächster Hunderter 400

Zähle in Schritten.

10er-Schritte vorwärts: 374, 384 , 394 , 404 , 414

2er-Schritte rückwärts: 374, 372 , 370 , 368 , 366

Wie viel fehlt bis 1000? Ergänze mit Zwischenschritten (schrittweise oder mit dem Zahlenstrich). Ergänze zuerst auf den nächsten Zehner, dann auf den Hunderter, und zum Schluss auf 1000.

374 + 6 = 380

380 + 20 = 400

400 + 600 = 1000

Resultat 626

Zahl des Tages

739

Schreibe die Zahl in einem Wort.

Markiere das passende Feld im Ausschnitt aus dem Tausenderbuch.

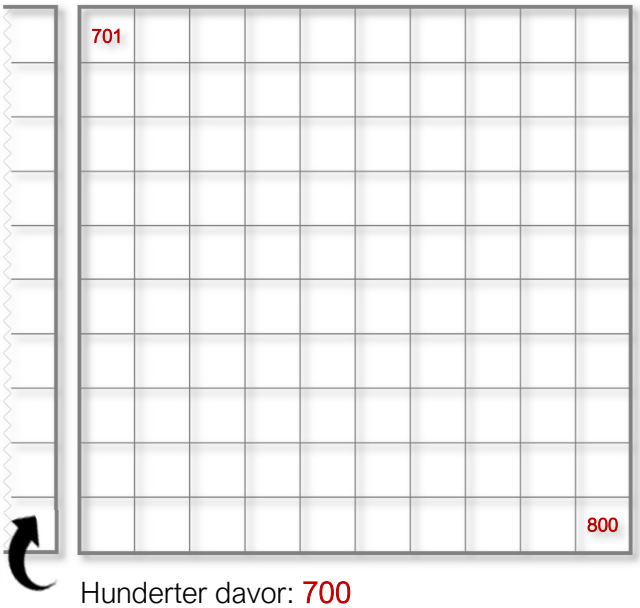

Hunderter davor: 700

Ordne die Zahlen der Grösse nach.

793, 286, 739

Beginne mit der kleinsten Zahl:

_____ < _____ < _____

Schreibe die Nachbarzahlen auf.

_____ , 739, _____

Zeichne mit Hunderter-Platten, Zehner-Stäben und Einer-Würfeln.

Setze einen Pfeil zum Strich, bei dem sich die Zahl auf dem Zahlenstrahl befindet.

Zähle in Schritten.

10er-Schritte vorwärts: 739, _____ , _____ , _____ , _____

2er-Schritte rückwärts: 739, _____ , _____ , _____ , _____

Wie viel fehlt bis 1000? Ergänze mit Zwischenschritten (schrittweise oder mit dem Zahlenstrich). Ergänze zuerst auf den nächsten Zehner, dann auf den Hunderter, und zum Schluss auf 1000.

Resultat:

Zahl des Tages

213

Schreibe die Zahl in einem Wort.

Markiere das passende Feld im Ausschnitt aus dem Tausenderbuch.



Hunderter davor: 200

Ordne die Zahlen der Grösse nach.

793, 286, 213

Beginne mit der kleinsten Zahl:

_____ < _____ < _____

Schreibe die Nachbarzahlen auf.

_____ , 213, _____

Zeichne mit Hunderter-Platten, Zehner-Stäben und Einer-Würfeln.

Setze einen Pfeil zum Strich, bei dem sich die Zahl auf dem Zahlenstrahl befindet.

Zähle in Schritten.

10er-Schritte vorwärts: 213, _____ , _____ , _____ , _____

2er-Schritte rückwärts: 213, _____ , _____ , _____ , _____

Wie viel fehlt bis 1000? Ergänze mit Zwischenschritten (schrittweise oder mit dem Zahlenstrich). Ergänze zuerst auf den nächsten Zehner, dann auf den Hunderter, und zum Schluss auf 1000.

Resultat:

Zahl des Tages

895

Schreibe die Zahl in einem Wort.

Markiere das passende Feld im Ausschnitt aus dem Tausenderbuch.

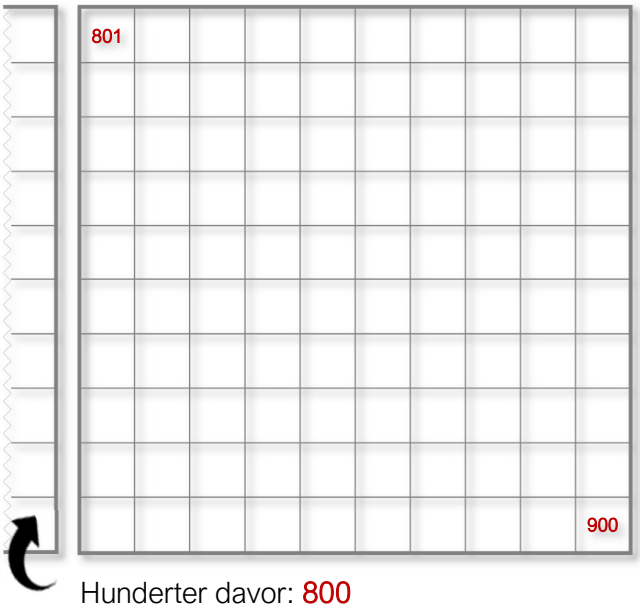

Hunderter davor: 800

Ordne die Zahlen der Grösse nach.

793, 286, 895

Beginne mit der kleinsten Zahl:

_____ < _____ < _____

Schreibe die Nachbarzahlen auf.

_____ , 895, _____

Zeichne mit Hunderter-Platten, Zehner-Stäben und Einer-Würfeln.

Setze einen Pfeil zum Strich, bei dem sich die Zahl auf dem Zahlenstrahl befindet.

Zähle in Schritten.

10er-Schritte vorwärts: 895, _____ , _____ , _____ , _____

2er-Schritte rückwärts: 895, _____ , _____ , _____ , _____

Wie viel fehlt bis 1000? Ergänze mit Zwischenschritten (schrittweise oder mit dem Zahlenstrich). Ergänze zuerst auf den nächsten Zehner, dann auf den Hunderter, und zum Schluss auf 1000.

Resultat:

Zahl des Tages 706

Schreibe die Zahl in einem Wort.

Markiere das passende Feld im Ausschnitt aus dem Tausenderbuch.

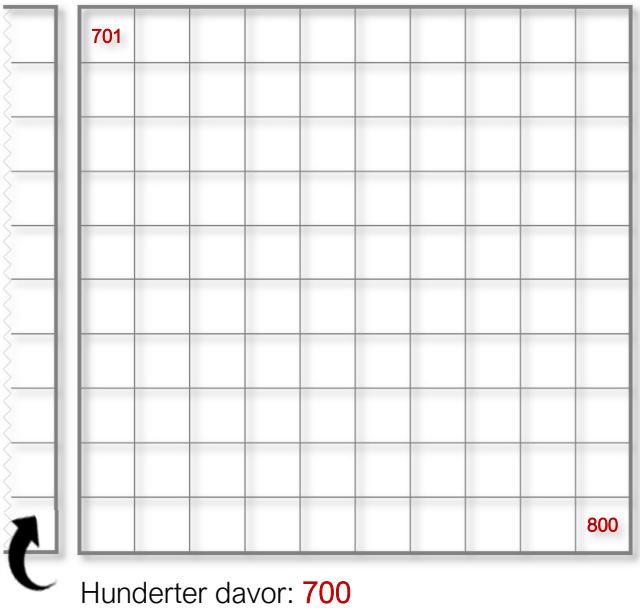

Hunderter davor: 700

Ordne die Zahlen der Grösse nach.

793, 286, 706

Beginne mit der kleinsten Zahl:

_____ < _____ < _____

Schreibe die Nachbarzahlen auf.

_____ , 706, _____

Zeichne mit Hunderter-Platten, Zehner-Stäben und Einer-Würfeln.

Setze einen Pfeil zum Strich, bei dem sich die Zahl auf dem Zahlenstrahl befindet.

Zähle in Schritten.

10er-Schritte vorwärts: 706, _____ , _____ , _____ , _____

2er-Schritte rückwärts: 706, _____ , _____ , _____ , _____

Wie viel fehlt bis 1000? Ergänze mit Zwischenschritten (schrittweise oder mit dem Zahlenstrich). Ergänze zuerst auf den nächsten Zehner, dann auf den Hunderter, und zum Schluss auf 1000.

Resultat:

Zahl des Tages

Schreibe die Zahl in einem Wort.

Markiere das passende Feld im Ausschnitt aus dem Tausenderbuch.

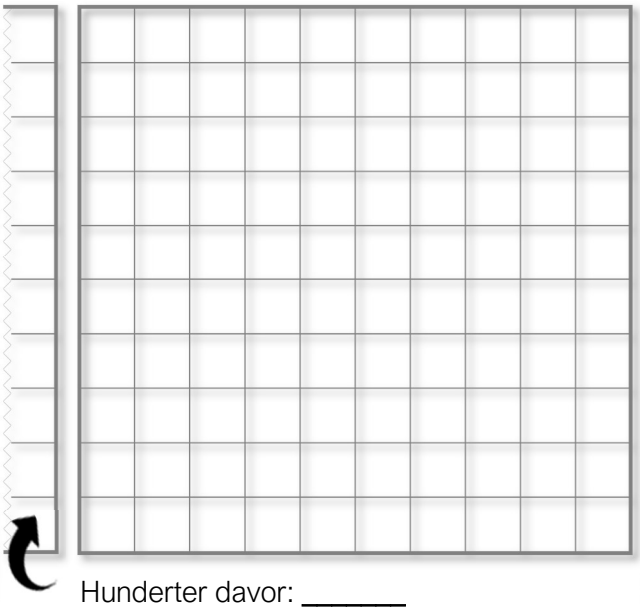

Hunderter davor: _____

Ordne die Zahlen der Grösse nach.

793, 286, ☐

Beginne mit der kleinsten Zahl:

_____ < _____ < _____

Schreibe die Nachbarzahlen auf.

_____ , ☐ , _____

Zeichne mit Hunderter-Platten, Zehner-Stäben und Einer-Würfeln.

Setze einen Pfeil zum Strich, bei dem sich die Zahl auf dem Zahlenstrahl befindet.

☐ vorheriger Hunderter

nächster Hunderter ☐

Zähle in Schritten.

10er-Schritte vorwärts: ☐, _____ , _____ , _____ , _____

2er-Schritte rückwärts: ☐, _____ , _____ , _____ , _____

Wie viel fehlt bis 1000? Ergänze mit Zwischenschritten (schrittweise oder mit dem Zahlenstrich). Ergänze zuerst auf den nächsten Zehner, dann auf den Hunderter, und zum Schluss auf 1000.

Resultat: